Централизованное тестирование по географии, 2011

При выполнении заданий с кратким ответом впишите в поле для ответа цифру, которая соответствует номеру правильного ответа, или число, слово, последовательность букв (слов) или цифр. Ответ следует записывать без пробелов и каких-либо дополнительных символов.

В заданиях, где нужно установить соответствие между двумя столбцами, ответ запишите в виде сочетания букв и цифр, соблюдая алфавитную последовательность букв левого столбца. Некоторые данные правого столбца могут использоваться несколько раз или не использоваться вообще. Например: А1Б1В4Г2.

Если вариант задан учителем, вы можете вписать или загрузить в систему ответы к заданиям с развернутым ответом. Учитель увидит результаты выполнения заданий с кратким ответом и сможет оценить загруженные ответы к заданиям с развернутым ответом. Выставленные учителем баллы отобразятся в вашей статистике.

1. При движении Земли вокруг Солнца, если в Финляндии пора года — зима, то в Китае:

1) лето 2) зима 3) осень 4) весна

2. На карте точка 3 расположена:

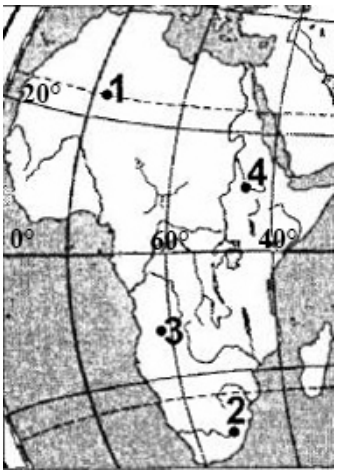

1) в Северном полушарии 2) в Восточном полушарии 3) между 0°—20° северной широты (с. ш .)
4) к югу от Южного тропика

3. Определите, какие из предложенных форм рельефа находятся в том же складчатом поясе, что и горы Малый Кавказ:

1) Уральские горы 2) горы Алтай 3) Скандинавские горы 4) Малоазиатское нагорье

4. Определите ОШИБОЧНОЕ утверждение:

1) возвышенности — это равнины с абсолютными высотами от 200 до 500 м
2) главной причиной химического выветривания является воздействие на горные породы живых организмов
3) к внешним процессам рельефообразования относится выветривание
4) плоскогорья и возвышенности имеют более пересеченный рельеф по сравнению с низменностями

5. Окраинное море — это:

1) Красное 2) Балтийское 3) Средиземное 4) Карское

6. Определите ОШИБОЧНОЕ утверждение:

1) самая низкая температура воздуха (абсолютный минимум) для земной поверхности зафиксирована на побережье Северного моря
2) зимой на побережье Средиземного моря господствуют умеренные воздушные массы
3) в экваториальных широтах относительная влажность воздуха высокая в течение всего года
4) муссоны оказывают влияние на климат восточного побережья территории Евразии

7. Укажите верное утверждение, используя данные климатодиаграммы:

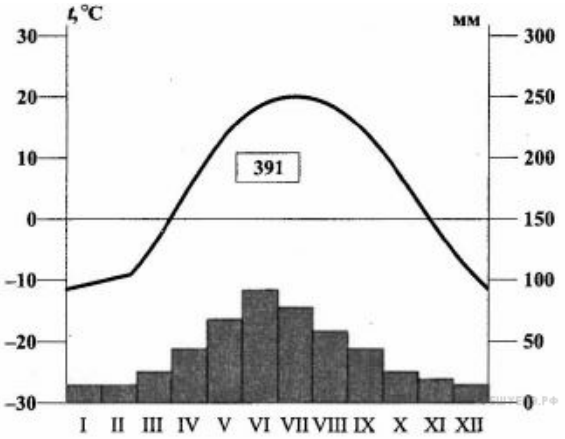

1) среднемесячные температуры воздуха в июне и ноябре примерно одинаковы
2) в январе и феврале атмосферных осадков выпадает примерно одинаковое количество
3) среднемесячные температуры воздуха в марте имеют положительное значение
4) годовое количество атмосферных осадков менее 100 мм

8. Природная зона саванн и редколесий характеризуется:

1) в Южной Америке — распространением на Оринокской низменности
2) равномерным увлажнением в течение всего года в субэкваториальном поясе
3) в Южной Америке- распространением на крайнем юге материка
4) в Африке — отсутствием травоядных копытных животных

9. Для современного населения мира характерна(-о):

1) низкая доля лиц пожилого возраста в возрастной структуре в Японии
2) численное преобладание женщин над мужчинами в половой структуре в Индии
3) распространение буддизма как преобладающей религии в Мексике
4) численное преобладание городского населения над сельским в Украине

10. Государство, столицей которого является город Стокгольм, на карте обозначено цифрой:

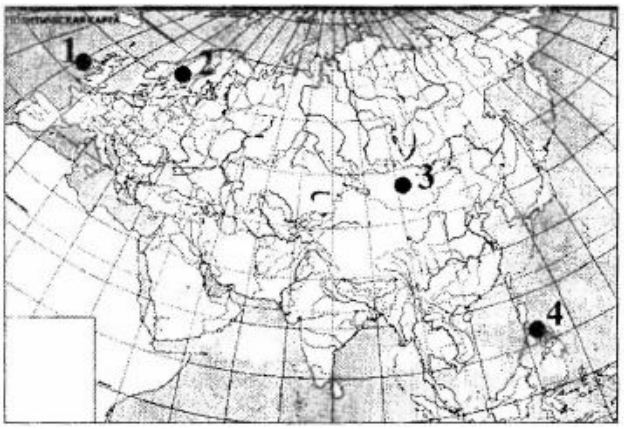

1) 1 2) 2 3) 3 4) 4

11. В каком варианте ответа названы не только суверенные государства, но и зависимые территории или владения государств?

1) Гвиана, Япония 2) Россия, Бразилия 3) Аргентина, Египет 4) Япония, Египет

12. Для географии промышленности мира характерно(-а):

1) лидерство Азии среди регионов мира по объемам добычи первичных источников энергии
2) совпадение основных районов добычи нефти с районами ее потребления
3) транспортировка основной части природного газа танкерами в сжиженном виде
4) сосредоточение наибольшего среди регионов мира гидропотенциала в Африке

13. Для географии сельского хозяйства мира характерно(-ы):

1) выращивание риса преимущественно в районах с умеренным климатом
2) наибольшие среди стран мира размеры поголовья свиней в Индии, Мексике и Японии
3) развитие в большинстве стран Африки интенсивного животноводства
4) наибольшие среди стран мира размеры поголовья крупного рогатого скота в Бразилии, Индии и США

14. Для территории Африки характерна(-о; -ен):

1) приуроченность гор Атлас к области мезозойской складчатости
2) превышение количества осадков над испарением в экваториальном климатическом поясе
3) карстовое происхождение котловины озера Танганьика
4) бедный видовой состав животного и растительного мира в зоне влажных экваториальных лесов

15. Социально-экономическое развитие Африки характеризуется:

1) численным преобладанием стран с высокими темпами естественного прироста населения
2) высокой долей пожилых людей в возрастной структуре населения большинства стран
3) преобладанием отраслей обрабатывающей промышленности в отраслевой структуре хозяйства большинства стран
4) значительным преобладанием отраслей растениеводства над животноводством в структуре сельского хозяйства ЮАР

16. Природный комплекс Австралии характеризуется:

1) приуроченностью месторождений нефти к щитам платформы
2) формированием муссоннога типа климата на южном побережье
3) смешанным питанием с преобладанием ледникового реки Дарлинг
4) сложением Центральной равнины мощной толщей осадочных отложений

17. Социально-экономическое развитие Австралии характеризуется:

1) высоким естественным приростом населения
2) низким удельным весом коренных жителей в этническом составе населения
3) наибольшим удельным весом занятых в сфере материального производства
4) развитием черной металлургии исключительно на привозной железной руде

18. Определите ОШИБОЧНОЕ утверждение:

1) территория Антарктиды омывается теплым течением Западных ветров
2) над территорией Антарктиды летом формируется область высокого атмосферного давления
3) почти вся территория Антарктиды расположена в пределах Южного полярного круга
4) материк Антарктида был открыт экспедицией под руководством русских мореплавателей

19. Природный комплекс Южной Америки характеризуется:

1) выпадением максимального количества осадков на Лаплатской (Ла-Платской) низменности
2) размещением водопада Игуасу на притоке реки Парана
3) размещением крупных месторождений оловянных руд на Амазонской низменности
4) размещением большей части Гвианского плоскогорья в природной зоне жестколистных вечнозеленых лесов и кустарников

20. Для социально-экономического развития Южной Америки характерен(-но; -на):

1) низкий удельный вес детей и подростков в возрастной структуре населения в Бразилии
2) преобладание унитарных по форме административно-территориального устройства государств
3) ведущая роль животноводства в отраслевой структуре сельского хозяйства
4) преобладание в экспорте продукции химической промышленности

21. Для социально-экономического развития Бразилии в отличие от Аргентины характерны(-а; -ен; -о):

1) наибольшие размеры поголовья крупного рогатого скота среди стран региона
2) федеративная форма государственного устройства 3) низкий естественный прирост населения
4) развитие животноводства исключительно мясного направления

22. Для природы Северной Америки характерна(-о; -ен):

1) максимальная высота рельефа в Аппалачах
2) большое годовое количество выпадения осадков в арктическом климатическом поясе
3) преимущественно ледниковый тип питания рек бассейна Тихого океана
4) формирование коричневых почв под растительностью пустынь

23. Социально-экономическое развитие стран Северной Америки характеризуется :

1) преобладанием протестантов среди верующего населения в США
2) относительно равномерным размещением населения в Канаде
3) производством большей части электроэнергии на АЭС в Мексике
4) производством алюминия исключительно на собственном сырье в США

24. Общим для социально-экономического развития Мексики и Канады является:

1) мировое лидерство по производству и экспорту бумаги
2) ведущая роль растениеводства в отраслевой структуре сельского хозяйства
3) федеративная форма административно-территориального устройства 4) первый тип воспроизводства населения

25. Река на территории Евразии, которая относится к бассейну Северного Ледовитого океана, — это:

1) Дон 2) Обь 3) Инд 4) Днепр

26. Для стран Северной Европы характерен(-на; -но):

1) низкий удельный вес старших возрастов в структуре населения
2) добыча нефти и природного газа на шельфе Северного моря
3) отведение основных посевных площадей под зерновые культуры
4) производство основной части электроэнергии на АЭС

27. Для социально-экономического развития стран Южной Европы характерна(-ен; -ы):

1) ведущая роль животноводства в отраслевой структуре сельского хозяйства
2) наиболее низкий уровень урбанизации в Италии 3) значительные объемы добычи нефти в большинстве стран региона
4) концентрация предприятий по производству черных металлов в портовых центрах

28. Для природы Азии характерно(-ен):

1) широкое распространение карстовых форм рельефа на территории Индо-Гангской низменности
2) зимнее половодье на реке Амур 3) преимущественно дождевой тип питания реки Амударья
4) образование котловины Мертвого моря-озера в рифтовом разломе

29. Социально-экономические особенности Казахстана и стран Средней Азии характеризуются:

1) низким уровнем естественного прироста населения в Таджикистане
2) приуроченностью основных районов земледелия к степной и лесостепной зонам в Казахстане
3) однонациональным составом населения в Туркменистане
4) высоким уровнем развития машиностроения во всех странах региона

30. Для природного комплекса территории России характерно:

1) влияние четвертичного оледенения на формирование рельефа Восточно-Европейской равнины
2) размещение крупнейших месторождений каменного угля на Кольском полуострове
3) влияние пассатов на климат побережья Дальнего Востока 4) карстовое происхождение котловины Ладожского озера

31. Для сельского хозяйства России характерно(-а):

1) размещение основной части посевов пшеницы в лесной зоне страны
2) ведущая роль свиноводства в отраслевой структуре животноводства
3) мировое лидерство по объемам производства кукурузы
4) сосредоточение производства сахарной свеклы на юге европейской части страны

32. Географическое положение территории Беларуси характеризуется:

1) наличием общих границ с Эстонией 2) расположением в пределах Восточно-Европейской равнины
3) координатой 51°16' з. д. крайней западной точки 4) протяженностью с севера на юг на 300 км

33. Для территории Беларуси характерен(-на; -но):

1) выход пород кристаллического фундамента на поверхность в пределах Брестской впадины
2) приуроченность преобладающей части месторождений горючих полезных ископаемых к Припятскому прогибу
3) распространение озерно-аллювиальных низменностей исключительно в центральных частях
4) высшая точка в рельефе — г. Маяк

34. Климат Беларуси характеризуется:

1) наиболее продолжительным периодом со снежным покровом на юга-западе
2) низкой относительной влажностью в течение всего года
3) повышением средних июльских температур воздуха с юга на север
4) уменьшением годового количества осадков с северо-запада на юга-восток

35. Река Щара на карте обозначена цифрой:

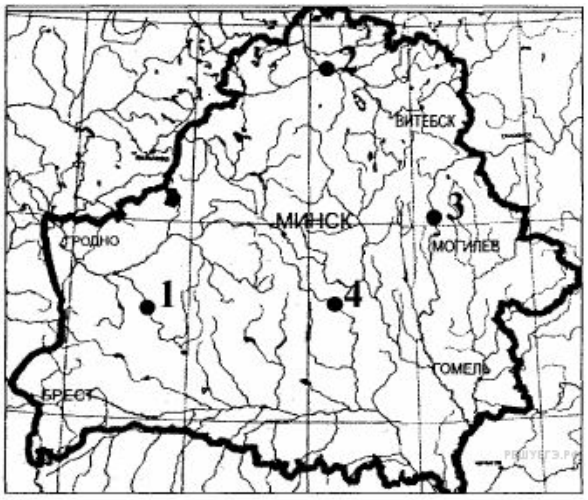

1) 1 2) 2 3) 3 4) 4

36. Для населения Беларуси характерно:

1) выделение украинцев в качестве второй по численности этнической группы
2) численное преобладание женщин над мужчинами в половой структуре
3) постепенное уменьшение удельного веса горожан на протяжении последних десятилетий
4) значительное превышение уровня рождаемости над уровнем смертности

37. Для промышленности Беларуси характерно(-ен):

1) наличие нескольких центров автомобилестроения
2) размещение предприятий черной металлургии в районе добычи железной руды
3) низкий уровень концентрации и комбинирования производства в химической промышленности
4) отсутствие предприятий по производству фосфорных удобрений

38. Для сельского хозяйства Беларуси характерны(-о; -ен):

1) значительные площади под посевами ячменя в восточной и северо-восточной частях страны
2) выращивание свиней исключительно в личных подсобных хозяйствах населения
3) наиболее высокий уровень развития животноводства в Гомельской области
4) размещение посевов льна-долгунца преимущественно в Брестской области

39. В Беларуси город Добруш находится на территории административной области:

1) Гродненской
2) Брестской
3) Гомельской
4) Минской

40. Территория ... области Беларуси имеет внешние границы исключительно с областями России. В отличие от других областей ее территория наименее заболочена и подверглась радиационному загрязнению.

1) Могилевской
2) Гомельской
3) Брестской
4) Витебской

41. Определите акватории Мирового океана, обозначенные на карте, и разместите их последовательно от 180 меридиана в направлении с востока на запад.

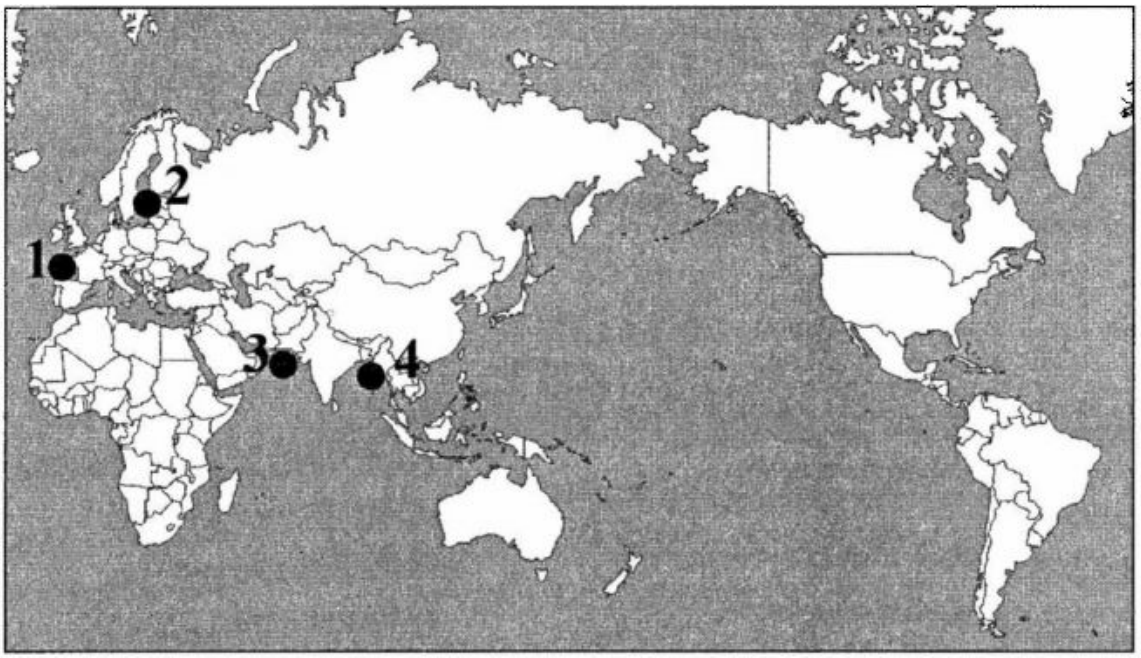

А) Балтийское море
Б) Аравийское море
В) Бискайский залив
Г) Бенгальский залив

Запишите в ответ слитно, без пробелов выбранное вами соответствие букв (без сохранения алфавитного порядка) и цифр. Например: Б2А1Г3В4.

42. Установите соответствие:

ЧАСТЬ СВЕТА	РЕКА
А) Австралия с Океанией	1) Святого Лаврентия
Б) Африка	2) Муррей
В) Америка	3) Нигер
Г) Европа	4) Лена
	5) Луара

Ответ запишите в виде сочетания букв и цифр, соблюдая алфавитную последовательность букв левого столбца. Помните, что некоторые данные правого столбца могут не использоваться вообще. Например: А2Б3В3Г4.

43. ... населенных пунктов — это величина населенных пунктов по количеству жителей в каждом из них.

44. На территории Беларуси наиболее плодородными являются дерново- ... почвы.

45. Установите соответствие:

ЦЕНТР ПРОИЗВОДСТВА	ПРОДУКЦИЯ
А) Гомель	1) целлюлоза
Б) Минск	2) спички
В) Светлогорск	3) кормоуборочные комбайны
Г) Пинск	4) автобусы

Ответ запишите в виде сочетания букв и цифр, соблюдая алфавитную последовательность букв левого столбца. Например: А2Б3В3Г4.

46. В Южной Америке водопад Анхель находится на одном из притоков реки ... .

47. Разместите перечисленные государства последовательно в порядке УВЕЛИЧЕНИЯ площади занимаемой ими территории.

1) Ватикан
2) Бразилия
3) Индия
4) США
5) Россия

Ответ запишите в виде последовательности цифр. Например: 12345.

48. Унитарное государство, основная часть населения которого сосредоточена в приморских районах на востоке страны. Государство является крупнейшим в мире производителем минеральных удобрений и занимает первое место в мире по валовому сбору пшеницы. Это государство ... .

49. По данным графика вычислите среднегодовую температуру воздуха.

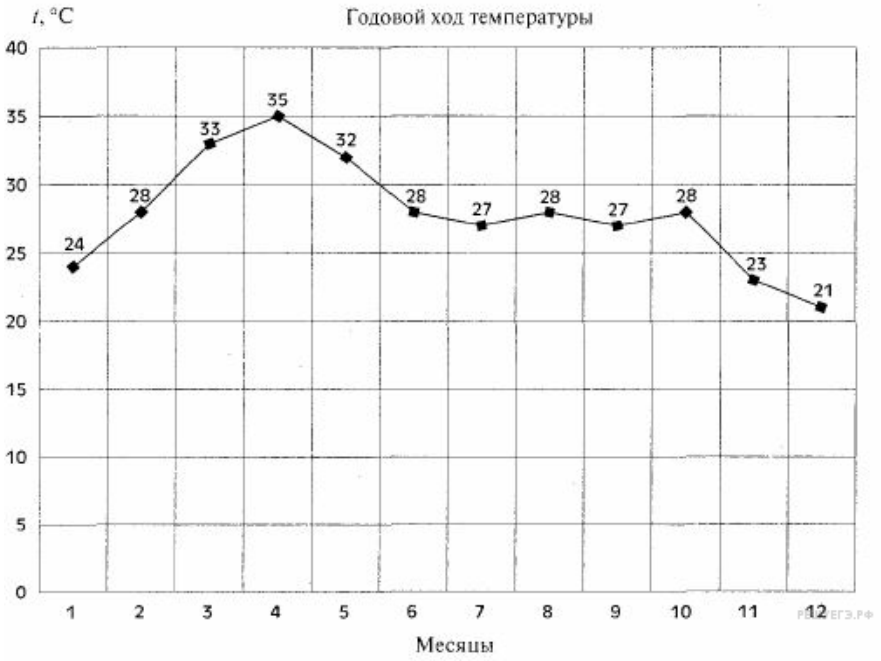

Ответом должно быть некоторое целое число. Например + 15.

50. У края пропасти атмосферное давление — 790 мм рт. ст. Определите давление на дне пропасти при глубине 300 м.